כימיה פיזיקלית

תוכן העניינים

1. תרמוכימיה 1
2. חמצון-חיזור 9
3. שיווי משקל כימי 21
4. תרמודינמיקה 31

כימיה פיזיקלית

פרק 1 - תרמוכימיה

תוכן העניינים

1. קביעת ערך השינוי באנתלפיה בעזרת השינויים בסביבה..... 1
2. קביעת ערך השינוי באנתלפיה בעזרת חוק הס..... 3

קביעת ערך שינוי האנתלפיה בעזרת השינויים בסביבה

שאלות

1) בשריפת 1 גרם של $C_2H_{4(g)}$ נפלטה אנרגיה שגרמה לחימום 300 גרם של מים מ- $19°C$ ל- $60°C$. מהי האנתלפיה של שריפת $C_2H_{4(g)}$?

החום הסגולי של מים נתון על ידי $C_P = 4.2\frac{j}{g\cdot °C}$.

2) חום השריפה של פחם הוא $6\ kcal/g$.

מהי מסת הפחם, שיוכל לספק בזמן שריפתו כמות חום שתספיק כדי להפוך 20 ק"ג קרח מוצק ב- $0°C$ למים במצב גזי בטמפרטורה של $100°C$?

נתון עבור המים כי $\Delta H_b^\circ = 40.7\frac{kJ}{mol}$; $\Delta H_m^\circ = 6.06\ \frac{kJ}{mol}$; $c = 4.2\frac{J}{g}\cdot C°$.

3) בערבוב 100 מ"ל תמיסת $Pb(NO_3)_2$ בריכוז $0.2\,M$ עם 100 מ"ל תמיסת KI בריכוז $0.8\,M$, נוצר משקע והטמפרטורה עלתה ב- $1.5°C$.

חשבו את שינוי האנתלפיה ΔH, לתגובת השיקוע.

זכרו כי קיבול החום של מים הוא $c = 4.2\frac{J}{g}\cdot C°$.

4) כמות של 25.23 גרם מתנול (CH_3OH) קפאו, ו- $4.1kJ$ חום נפלטו לסביבה.

מהי אנתלפיית ההיתוך של מתנול?

5) קיבול החום של נחושת הוא $24.4\frac{J}{Kmol}$.

כמה חום נדרש, על מנת להעלות את הטמפרטורה של 120 גרם נחושת מ- $300\,K$ ל- $340\,K$?

א. $\sim 1844\,J$

ב. $\sim 117.1kJ$

ג. $\sim 976\,J$

ד. $\sim 2929\,J$

כתבה ופתרה – ד"ר אבלינה ברט ©

6) נתונה התגובה $\Delta H^\circ = -241.8\frac{kJ}{mol}$ $H_{2(g)} + \frac{1}{2}O_{2(g)} \rightarrow H_2O_{(g)}$.

מהי כמות החום שנפלטת, ב- kJ , כאשר 36 גרם של גז מימן מגיבים עם 36 גרם של גז חמצן?

א. $544\,kJ$

ב. $-8630\,kJ$

ג. $272\,kJ$

ד. $-1088\,kJ$

תשובות סופיות

1) $-1446.48\frac{kJ}{mol}$

2) 2395.06 גרם.

3) $-63\frac{kJ}{mol}$

4) $5.2\frac{kJ}{mol}$

5) א

6) א

כתבה ופתרה – ד"ר אבלינה ברט ©

קביעת ערך שינוי האנתלפיה בעזרת חוק הס

שאלות

1) נתונות התגובות הבאות:

$$C_2H_{2(g)} + 2.5O_{2(g)} \rightarrow 2CO_{2(g)} + H_2O_{(l)} \qquad \Delta H_1^\circ = -1299.6\frac{kJ}{mol}$$

$$C_2H_{6(g)} + 3.5O_{2(g)} \rightarrow 2CO_{2(g)} + 3H_2O_{(l)} \qquad \Delta H_2^\circ = -1559.4\frac{kJ}{mol}$$

$$H_{2(g)} + 0.5O_{2(g)} \rightarrow H_2O_{(l)} \qquad \Delta H_3^\circ = -285.9\frac{kJ}{mol}$$

חשבו את חום התגובה $C_2H_{2(g)} + 2H_{2(g)} \rightarrow C_2H_{6(g)}$.

2) פתחו ביטוי עבור ΔH לתגובה $2XO_{(s)} + CO_{2(g)} \rightarrow X_2O_{3(s)} + CO_{(g)}$,
כאשר נתונים התהליכים הבאים:

$$X_{(s)} + CO_{2(g)} \rightarrow XO_{(s)} + CO_{(g)} \qquad \Delta H_1^\circ$$

$$CO_{(g)} + 0.5O_{2(g)} \rightarrow CO_{2(g)} \qquad \Delta H_2^\circ$$

$$2X_{(s)} + 1.5O_{2(g)} \rightarrow X_2O_{3(s)} \qquad \Delta H_2^\circ$$

3) חשבו את אנתלפיית התגובה $PCl_{5(g)} + H_2O_{(g)} \rightarrow POCl_{3(g)} + 2HCl_{(g)}$,
כאשר נתונים התהליכים הבאים:

$$(1)\ 2P_{(s)} + O_{2(g)} + 3Cl_{2(g)} \rightarrow 2POCl_{3(g)} \qquad \Delta H_1^\circ = -283.0\,kcal$$

$$(2)\ H_{2(g)} + Cl_{2(g)} \rightarrow 2HCl_{(g)} \qquad \Delta H_2^\circ = -44.2\,kcal$$

$$(3)\ 2P_{(s)} + 5Cl_{2(g)} \rightarrow 2PCl_{5(g)} \qquad \Delta H_3^\circ = -190.8\,kcal$$

$$(4)\ 2H_{2(g)} + O_{2(g)} \rightarrow 2H_2O_{(g)} \qquad \Delta H_4^\circ = -115.6\,kcal$$

4) חשבו את האנתלפיה של התגובה $2MgO_{(s)} + Si_{(s)} \rightarrow SiO_{2(s)} + Mg_{(s)}$,
כאשר נתון:

$$\Delta H_f^\circ\left(SiO_{2(s)}\right) = -20.33\frac{kcal}{mol}$$

$$\Delta H_f^\circ\left(MgO_{(s)}\right) = -182.22\frac{kcal}{mol}$$

כתבה ופתרה – ד"ר אבלינה ברט ©

5) נתונים התהליכים אֶקְסוֹתֶרְמִיים הבאים:

$$(1)\ 2H_{2(g)}+O_{2(g)} \rightarrow 2H_2O_{(g)}$$
$$(2)\ 2H_{2(g)}+O_{2(g)} \rightarrow 2H_2O_{(l)}$$
$$(3)\ 2H_{2(g)}+2O_{(g)} \rightarrow 2H_2O_{(l)}$$
$$(4)\ 2H_{2(g)}+2O_{(g)} \rightarrow 2H_2O_{(g)}$$

איזה תהליך הוא האֶקְסוֹתֶרְמִי ביותר? נמקו.

6) איזו משוואה מבין המשוואות הבאות מתארת את תהליך היווצרות הגז HCl?

א. $H^+_{(aq)}+Cl^-_{(aq)} \rightarrow HCl_{(g)}$

ב. $ICl_{3(g)}+2H_{2(g)} \rightarrow HI_{(g)}+3HCl_{(g)}$

ג. $NH_{3(g)}+Cl_{2(g)} \rightarrow NH_2Cl_{(g)}+HCl_{(g)}$

ד. $\frac{1}{2}H_{2(g)}+\frac{1}{2}Cl_{2(g)} \rightarrow HCl_{(g)}$

7) במהלך מטבוליזם (תגובה עם חמצן) של גלוקוז $\left(C_6H_{12}O_{6(s)}\right)$ נוצרים $CO_{2(g)}$ ו- $H_2O_{(l)}$, ונפלט חום שניתן לנצלו לביצוע עבודה בשיעור של 70%.
חשבו את מסת הגלוקוז שיש לשרוף, כשאישה מטפסת על הר ומשקיעה לשם כך עבודה בשיעור של 3300 kJ, כאשר נתון:

$$\Delta H_f^\circ\left(C_6H_{12}O_{6(s)}\right)=-1273.3\frac{kJ}{mol}$$
$$\Delta H_f^\circ\left(CO-_{2(g)}\right)=-393.5\frac{kJ}{mol}$$
$$\Delta H_f^\circ\left(H_2O_{(l)}\right)=-285.8\frac{kJ}{mol}$$

א. 212 גרם.

ב. 510 גרם.

ג. 302.4 גרם.

ד. 728 גרם.

כתבה ופתרה – ד"ר אבלינה ברט ©

8) נתונה התגובה $\Delta H^0 = -264\,kJ$ $N_{2(g)} + 3F_{2(g)} \rightarrow 2NF_{3(g)}$.

א. מהי כמות האנרגיה המשתחררת, כאשר 0.256 מול של $NF_{3(g)}$ נוצרים מהיסודות הנ"ל בלחץ של אטמוספירה אחת ובטמפרטורה של $289\,K$?

ב. היעזרו בטבלה הבאה וחשבו את אנתלפיית הקשר $F-F$.

הקשר	אנתלפיית הקשר $\frac{kJ}{mol}$
$N \equiv N$	946
$F-N$	272

9) נתון כי

$$\Delta H_c^\circ\left(CH_3COCH_{3(l)}\right) = -1821.4\frac{kJ}{mol}$$

$$\Delta H_c^\circ\left(CH_3CH_2CHO_{(l)}\right) = -1816.7\frac{kJ}{mol}$$

שינוי האנתלפייה $\left(\Delta H_c^\circ\right)$ עבור התהליך $CH_3CH_2COH_{(l)} \rightarrow CH_3COCH_{3(l)}$, שווה ל:

א. $-4.7\frac{kJ}{mol}$

ב. $-3638.1\frac{kJ}{mol}$

ג. $4.7\frac{kJ}{mol}$

ד. $3638.1\frac{kJ}{mol}$

לפתרון מלא בסרטוני וידאו היכנסו לאתר www.GooL.co.il
כתבה ופתרה – ד"ר אבלינה ברט ©

10) נתונה תגובת השריפה $4C_2H_5NO_{2(s)} + 9O_{2(g)} \rightarrow 8CO_{2(g)} + 10H_2O_{(g)} + 2N_{2(g)}$,

וידוע כי חום השריפה של גליצין $(C_2H_5NO_2)$ הוא $\Delta H^0{}_c = -973.49 \frac{kJ}{mole}$.

חשבו את אנתלפיית ההיווצרות של גליצין, כאשר נתון:

Substance	ΔH_f^0, kJ mol^{-1}
$CO_{2(g)}$	–393.5
$H_2O_{(l)}$	–285.8

א. $-9900 \frac{kJ}{mole}$

ב. $-1258 \frac{kJ}{mole}$

ג. $-528 \frac{kJ}{mole}$

ד. אף תשובה אינה נכונה.

11) נתונות שתי תגובות:

$$NH_{3(g)} + 3F_{2(g)} \longrightarrow NF_{3(g)} + 3HF_{(g)} \quad \Delta H^0 = -892 \text{ kJ}$$

$$N_{2(g)} + 3F_{2(g)} \longrightarrow 2NF_{3(g)(g)} \quad \Delta H^0 = -124.7 \text{ kJ}$$

א. 1. חשבו את ΔH^0 עבור התגובה $2NH_{3(g)} + 3F_{2(g)} \rightarrow N_{2(g)} + 6HF_{(g)}$.

2. מהו $\Delta H_f^0\left(NF_{3(g)}\right)$?

3. נתון כי $\Delta H_f^0\left(HF_{(g)}\right) = -271 \frac{kJ}{mol}$, חשבו את $\Delta H_f^0\left(NH_{3(g)}\right)$.

ב. נתונות אנתלפיות הקשר:

$N-H$	$F-F$	$H-F$	**קשר**
391	158	565	$\Delta H_D^0\left[\frac{kJ}{mol}\right]$

חשבו את אנתלפיית הקשר הממוצעת בין חנקן לפלואור ב- $NF_{3(g)}$.

כתבה ופתרה – ד"ר אבלינה ברט ©

12) נתון כי $\Delta H_D^0(C-H)=412\frac{kJ}{mol}$ ו- $\Delta H_D^0(C-Cl)=338\frac{kJ}{mol}$.

למה שווה אנתלפיית התגובה $CH_{4(g)}+CCl_{4(g)} \rightarrow CH_3Cl_{(g)}+CCl_3H_{(g)}$:

א. 0

ב. +74

ג. –74

ד. +850

13) נתון :

$$CH_{4(g)} \longrightarrow C_{(g)} + 4H_{(g)} \quad \Delta H^0 = +H_1$$

$$C_2H_{6(g)} \longrightarrow 2C_{(g)} + 6H_{(g)} \quad \Delta H^0 = +H_2$$

והניחו שאנתלפיית הקשר $C-H$ במולקולת מתאן $(CH_{4(g)})$ שווה לזו שבמולקולת אתאן $(C_2H_{6(g)})$.

לפי נתוני השאלה, אנתלפיית הקשר $C-C$ במולקולת C_2H_6 שווה (ביחידות $\frac{kJ}{mol}$) ל :

א. $\frac{H_1}{4}+\frac{H_2}{6}$

ב. $\frac{H_2}{6}-\frac{H_1}{4}$

ג. $H_2-\frac{H_1}{6}$

ד. $H_2-\frac{3H_1}{2}$

14) תהליך שריפה של די מתיל אתר **גזי** (CH_3OCH_3) אקסותרמי יותר מתהליך השריפה של אתנול **גזי** (CH_3CH_2OH), כי :

א. בין מולקולות הכוהל קיימים קשרי מימן.

ב. נקודת הרתיחה של כוהל גבוהה מזו של אתר.

ג. יש להשקיע יותר אנרגיה לניתוק קשרים בכוהל.

ד. יש להשקיע יותר אנרגיה לניתוק קשרים באתר.

כתבה ופתרה – ד"ר אבלינה ברט ©

תשובות סופיות

1) $-312\ \frac{kJ}{mol}$

2) $\Delta H_3 - 2\Delta H_1 - 3\Delta H_2$

3) $-32.5\frac{kcal}{mol}$

4) $344.11\frac{kcal}{mol}$

5) ג

6) ד

7) ג

8) א. $33.79\,kJ$ ב. $140.67\frac{kJ}{mol}$

9) ג

10) ג

11) א.1. $-1659.4\,kJ$ .2 $-62.35\,kJ$ .3 $16.65.4\frac{kJ}{mol}$ ב. $281.33\frac{kJ}{mol}$

12) א

13) ד

14) ג

כתבה ופתרה – ד"ר אבלינה ברט ©

כימיה פיזיקלית

פרק 2 - חמצון-חיזור

תוכן העניינים

1. תגובת חמצון-חיזור - מושגי יסוד 9
2. יישום של תהליכי חִמְצוּר - תאים חשמליים 13

תגובת חמצון-חיזור – מושגי יסוד

שאלות

1) נתונה שרשרת תגובות: $H_2SO_4 \xrightarrow{A} H_2SO_3 \xrightarrow{B} H_2S_2O_3 \xrightarrow{C} H_2S$.
מהי הקביעה **הנכונה**:

א. A, B ו-C הם חומרים מחמצנים.
ב. A, B ו-C הם חומרים מחזרים.
ג. A ו-B הם חומרים מחזרים, אך C חומר מחמצן.
ד. A ו-B הם חומרים מחמצנים, אך C חומר מחזר.

2) נתונים ההיגדים שמתייחסים לתגובה $3N_2O_3 \rightarrow N_2O_5 + 4NO$.

1. 0.2 מול מחזר מסרו 0.4 מול אלקטרונים.
2. 0.2 מול מחזר מגיבים עם 0.2 מולי מחמצן.
3. בתהליך זה N_2O_3 הוא מחמצן ומחזר.
4. 0.1 מול מחמצן קיבלו 0.2 מול אלקטרונים.
5. אף אחד מההיגדים הוא לא נכון.

אילו מההיגדים **נכונים**:

א. 1 ו-4.
ב. 2 ו-3.
ג. 5 בלבד.
ד. 3 ו-4.
ה. 3 בלבד.

3) נתונה תגובת חמצון-חיזור: $2NO_{(g)} + 2H_{2(g)} \rightarrow 2H_2O_{(g)} + N_{2(g)}$.
מספר האלקטרונים שעוברים ממחזר למחמצן בתגובה זו הוא:

א. 1
ב. 2
ג. 3
ד. 4

4) מספר החמצון של היסוד vanadium במינרל $Rb_4Na[HV_{10}O_{28}]$ הוא:

א. -6
ב. $+8$
ג. $+3$
ד. $+5$

לפתרון מלא בסרטוני וידאו היכנסו לאתר www.GooL.co.il
כתבה ופתרה – ד"ר אבלינה ברט ©

5) בריאקציה מסוימת היון SO_3^{2-} משתנה והופך ליון $S_2O_4^{2-}$.
לפיכך, ניתן לומר ש:

א. אטומי הגופרית עוברים חמצון.
ב. אטומי הגופרית הם המחמצנים.
ג. אטומי החמצן עוברים חיזור.
ד. שינוי זה איננו חלק מתהליך חמצון חיזור.

6) זהב מגיב עם תערובת של חומצה כלורית וחומצה חנקתית בהתאם למשוואה:

$$Au_{(s)} + 4H^+_{(aq)} + NO_3^-{}_{(aq)} + 4Cl^-_{(aq)} \rightarrow [AuCl_4]^-_{(aq)} + 2H_2O_{(l)} + NO_{(g)}$$

מיהו המחמצן בריאקציה זו?

א. Au
ב. H^+
ג. NO_3^-
ד. Cl^-

7) סמנו את התשובה שבה מספר החמצון של היסוד המסומן <u>בקו</u> **אינו** נכון:

א. $\underline{Mn}O_2$, $4+$
ב. $\underline{S}O_3^{2-}$, $4+$
ג. $\underline{Cl}O_3^-$, $7+$
ד. $\underline{Cr}_2O_3$, $3+$

8) איזו מבין התגובות הבאות **איננה** תגובת חמצון-חיזור?

א. $MnO_4^- + 5Fe^{2+} + 8H^+ \rightarrow 5Fe^{3+} + Mn^{2+} + 4H_2O$
ב. $Au + 4H^+ + NO_3^- + 4Cl^- \rightarrow [AuCl_4]^- + 2H_2O + NO$
ג. $6HF + Al(OH)_3 + 3NaOH \rightarrow Na_3AlF_6 + 6H_2O$
ד. $2H_2 + O_2 \rightarrow 2H_2O$

כתבה ופתרה – ד"ר אבלינה ברט ©

9) ל-50 מ״ל תמיסת $CuBr_2$, בריכוז $0.4M$, הזרימו 2.5 ליטר כלור גזי בתנאי החדר.

א. רשמו ניסוח התהליך.

ב. חשבו את מס׳ מולי האלקטרונים שהשתתפו בתהליך.

ג. 1. לתמיסה שהתקבלה נוספה תמיסת $AgNO_3$. מהו המשקע שיתקבל? רשמו ניסוח התהליך.

2. איזה נפח תמיסת $AgNO_3$ 0.1 M יידרש לשיקוע מלא? פרטו.

ד. לאחר סינון המשקע, הוסף מגנזיום לתמיסה.

1. רשמו ניסוח לתהליך שהתרחש.

2. מהו מספר מולי האלקטרונים שהשתתפו בתהליך הנ״ל? (הניחו שכל החומרים הגיבו עד הסוף)

10) להלן שני ניסויים:

- בניסוי 1 הוסיפו גז כלור לתמיסת נחושת ברומית $(CuBr_2)$ בריכוז $1M$, וכתוצאה מכך התרחשה תגובה.
- בניסוי 2 הוסיפו אלומיניום $(Al_{(s)})$ לתמיסת נחושת ברומית $(CuBr_2)$ בריכוז $1M$, וכתוצאה מכך והתרחשה תגובה.

א. עבור כל ניסוי:

1. ציינו מהו המחמצן ומהו המחזר.

2. נסחו ואזנו את תגובת חמצון-חיזור.

להלן שני ניסויים נוספים:

- בניסוי 3 הוסיפו נחושת $(Cu_{(s)})$ לתמיסת $AgNO_{3(aq)}$ בריכוז $1M$ והתרחשה התגובה $Cu_{(s)} + Ag^{+}_{(aq)} \rightarrow Cu^{+2}_{(aq)} + Ag_{(s)}$.
- בניסוי 4 הוסיפו אלומיניום $(Al_{(s)})$ לתמיסת $KCl(aq)$ בריכוז $1M$, ולא התרחשה תגובה.

ב. 1. דרגו את היסודות Cu, Al, K, Ag על פי נטייתם לחזר.

2. האם תתרחש תגובה בין תמיסת $AgNO_{3(aq)}$ ובין $Al_{(s)}$? נמקו.

11) נתון הניסוח הבלתי-מאוזן הבא:

$$ClO^{-}_{4(aq)} + Cl^{-}_{(aq)} + H_3O^{+}_{(aq)} \rightarrow Cl_{2(aq)} + H_2O_{(l)}$$

א. רשמו ניסוח מאוזן וקבע את המחמצן ואת המחזר.

ב. כמה אלקטרונים עוברים בתהליך שבו נוצרים 5 ליטר כלור בתנאי STP?

12) אזנו את המשוואה הבאה, ציינו את המחמצן והמחזר, וקבעו ואת מספר מולי האלקטרונים שמשתתפים בתגובה

$$K_2MnO_4 + H_2O \rightarrow KMnO_4 + MnO_2 + KOH$$.

כתבה ופתרה – ד״ר אבלינה ברט ©

תשובות סופיות

1) ב
2) ד
3) ד
4) ד
5) ב
6) ג
7) ג
8) ג
9) א. $2Br^-_{(aq)} + Cl_{2(g)} \rightarrow Br_{2(l)} + 2Cl^-_{(aq)}$ ב. 0.04 מול.
ג.1. AgCl 2. 0.4 ליטר.
ד.1. $Cu^{2+}_{(aq)} + Mg_{(s)} \rightarrow Cu_{(s)} + Mg^{2+}_{(aq)}$ 2. 0.04 מול.
10) א.1. Br^- מחזר, Cl_2 מחמצן, Al מחזר, Cu^{2+} מחמצן.
ב.1. $K > Al > Cu > Ag$ 2. כן.
11) 0.39 מול.
12) 2 מול.

כתבה ופתרה – ד"ר אבלינה ברט ©

יישום של תהליכי חִמְצוּר – תאים חשמליים

שאלות

1) כמה זמן יש להפעיל תא אלקטרוליטי, בכדי לקבל ציפוי כסף מתכתי, שמסתו 0.8 גרם, אם מועבר זרם של 2.5 אמפר בתוך תמיסה מימית של $AgNO_3$?

א. פחות משתי דקות.

ב. 9.54 דקות.

ג. 4.76 דקות.

ד. 4.76 שעות.

2) נתונים: $E^0\left(I_2/I^-\right)=0.54\,V,\ E^0\left(Br_2/Br^-\right)=1.09\,V$,

$E^0\left(Ag^+/Ag\right)=0.8\,V,\ E^0\left(Pb^{2+}/Pb\right)=-0.13\,V,\ E^0\left(Zn^{2+}/Zn\right)=-0.76\,V$.

בהתבסס על טבלת פוטנציאלי החיזור הסטנדרטיים, מי מהחומרים המופיעים להלן יכולים לחזר $I_{2(s)}$ ל- $I^-_{(aq)}$?

א. $Br^-_{(aq)}$

ב. $Ag_{(s)}$

ג. $Pb_{(s)}$

ד. $Zn^{2+}_{(aq)}$

3) חשבו את הפרש הפוטנציאלים $\Delta\varepsilon$ ב- $25°C$ של תא אלקטרוכימי, המורכב מחצי תא אבץ, שבו יוני אבץ בריכוז $0.01M$, וחצי תא נוסף, שבו Br_2 נוזלי ובתוכו יוני Br^- בריכוז $10^{-4}\,M$.

נתון כי $E^0\left(Br_2/Br^-\right)=1.09\,V,\ E^0\left(Zn^{2+}/Zn\right)=-0.76\,V$.

א. $1.78\,V$

ב. $0.13\,V$

ג. $2.145\,V$

ד. $1.72\,V$

כתבה ופתרה – ד"ר אבלינה ברט ©

4) תא אלקטרוכימי מורכב מאלקטרודת אבץ ואלקטרודת עופרת.
סמנו את המשפט **שאינו** נכון.
נתון כי $Pb^{2+} + Zn \rightarrow Pb + Zn^{2+},\ \Delta\varepsilon^0 = 0.637\,volt$.

א. הקתודה היא אלקטרודת האבץ.
ב. הריאקציה הספונטאנית מתרחשת בכיוון הרשום.
ג. אלקטרודת העופרת טעונה במטען חיובי.
ד. האבץ עובר חמצון בתהליך הזה.

5) בהתבסס על פוטנציאלי החיזור הסטנדרטיים שלהלן, סמנו את המשפט הנכון.
נתונים: $E^0\left(Mg^{2+}/Mg\right) = -2.36\,V,\ E^0\left(Cu^{2+}/Cu\right) = 0.34\,V$,
$E^0\left(Ag^{+}/Ag\right) = 0.8\,V,\ E^0\left(Fe^{2+}/Fe\right) = -0.44\,V,\ E^0\left(Zn^{2+}/Zn\right) = -0.76\,V$.

א. מגנזיום מתכתי (Mg) לא מגיב עם יוני אבץ $\left(Zn^{2+}\right)$ בתמיסה מימית.
ב. נחושת מתכתית (Cu) מגיבה עם יוני אבץ $\left(Zn^{2+}\right)$ בתמיסה מימית.
ג. ברזל מתכתי (Fe) מגיב עם יוני אבץ $\left(Zn^{2+}\right)$ בתמיסה מימית.
ד. ברזל מתכתי (Fe) מגיב עם יוני מימן $\left(H^{+}\right)$ בתמיסה מימית.

6) חשבו את הפוטנציאל הסטנדרטי ε^0 עבור חצי התא $Fe^{3+}{}_{(aq)} + 3e^- \rightarrow Fe_{(s)}$.
השתמשו בפוטנציאלי החיזור הסטנדרטיים של Fe^{2+}/Fe ושל Fe^{3+}/Fe^{2+}.
נתון כי $E^0\left(Fe^{2+}/Fe\right) = -0.44\,V,\ E^0\left(Fe^{3+}/Fe^{2+}\right) = 0.77\,V$.

א. $0.33\,volt$
ב. $-0.33\,volt$
ג. $-0.037\,volt$
ד. $1.21\,volt$

7) בהתבסס על פוטנציאלי החיזור הסטנדרטיים, מהו קבוע שיווי המשקל ב-
$25°C$ של תהליך החמצון-חיזור $Pb^{2+}{}_{(aq)} + Cu_{(s)} \leftrightarrow Cu^{2+}{}_{(aq)} + Pb_{(s)}$.
נתון כי $E^0\left(Cu^{2+}/Cu\right) = 0.34\,V,\ E^0\left(Pb^{2+}/Pb\right) = -0.13\,V$.

א. $1.17\cdot10^{-16}$
ב. 0.343
ג. $1.31\cdot10^{-8}$
ד. $1.43\cdot10^{-7}$

כתבה ופתרה – ד"ר אבלינה ברט ©

8) תא ריכוזי של מימן משמש ככלי למדידת pH . מה יהיה ה- pH באנודה בתא המפורט להלן? מתח התא שווה ל- 0.122 Volt ב-25°C , ונתון כי
$Pt, H_2(1\ atm)\ /\ H^+(pH=?)\ ||\ H^+(1M)\ /\ H_2(1\ atm), Pt$.

א. $pH = 1.03$

ב. $pH = 4.75$

ג. $pH = 2.068$

ד. $pH = 4.12$

9) נתון התא האלקטרוכימי $Fe^{2+}(1M)/Fe^{3+}(1M)\ ||\ Cu^{2+}(1M)/Cu$.
איזו מבין הפעולות הבאות תגרום לעלייה הגדולה ביותר במתח התא?

א. הורדת ריכוז יוני הנחושת פי 2.

ב. הורדת ריכוז יוני Fe^{2+} פי 2.

ג. הכפלת ריכוז יוני הנחושת (פי 2).

ד. הכפלת ריכוז יוני Fe^{2+} (פי 2).

10) נתון תא אלקטרוכימי שבו האנודה היא $Zn/Zn^{+2}(1.0M)$ $\left(\varepsilon^0_{Zn^{+2}(1.0M)/Zn} = -0.76\,V\right)$.
מהו צריך להיות חצי התא של הקטודה, כדי שהפוטנציאל של התא כולו יהיה **הגבוה** ביותר?

א. $\varepsilon^0_{Mg^{+2}(1.0M)/Mg} = -2.36V$

ב. $\varepsilon^0_{Cd^{+2}(1.0M)/Cd} = -0.40\,V$

ג. $\varepsilon^0_{Cu^{+2}(1.0M)/Cu} = -0.34\,V$

ד. $\varepsilon^0_{Pt^{+2}(1.0M)/Pt} = -1.20\,V$

כתבה ופתרה – ד"ר אבלינה ברט ©

11) נתון תא אלקטרוכימי:

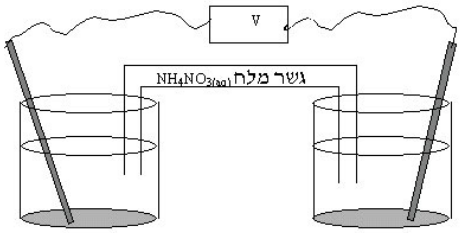

כוס A כוס B

כוס A (האנודה) מכילה תמיסת $Mg(NO_3)_2$ (קל תמס) ואלקטרודת מגנזיום במשקל 12.30 גרם. כוס B (הקטודה) מכילה תמיסת $Cu(NO_3)_2$ (קל תמס) ואלקטרודת נחושת במשקל 12.30 גרם. התא פעל במשך 15 דקות ולאחר מכן נשקלו האלקטרודות. מהו המשפט **נכון**:

א. המסה של שתי האלקטרודות יחד שווה ל- 24.60 גרם.

ב. המסה של שתי האלקטרודות יחד קטנה מ- 24.60 גרם.

ג. המסה של שתי האלקטרודות יחד גדולה מ- 24.60 גרם.

ד. אי אפשר לקבוע כי חסרים נתונים.

12) עבור תגובת חמצון-חיזור $Ni_{(s)} + Sn^{+2}_{(aq)} \rightleftarrows Ni^{+2}_{(aq)} + Sn_{(s)}$, ערכו של קבוע שיווי המשקל (לפי הריכוזים) בטמפרטורת החדר שווה ל- $5.00\cdot10^{3}$.

נתון כי $Sn^{+2} + 2e \rightleftarrows Sn \quad \varepsilon^0 = -0.140\,V$.

א. חשבו את פוטנציאל החיזור הסטנדרטי עבור יוני ניקל.

נתון התא $Ni_{(s)} / Ni^{+2}_{(aq)}\left(1.00\cdot10^{-3}M\right) // Sn^{+2}\left(9.00\cdot10^{-2}M\right)/Sn$.

ב. חשבו את המתח שנמדד ברגע חיבור התא.

ג. חצי תא סטנדרטי של ניקל (Ni) חובר לחצי תא סטנדרטי של מימן.

עקב חיבור התא נמדד מתח חיובי.

(חצי תא מימן: $2H^{+}_{(aq)} + 2e \rightleftarrows H_{2(g)} \quad \varepsilon^0 = 0.00\,V$)

1. איזה מתח נמדד ברגע חיבור התא?
2. האם ה- pH בתא המימן עלה, ירד או נשאר קבוע? נמקו.
3. רשמו את התגובה המאוזנת שמתרחשת עקב חיבור שני חצאי-התאים.
4. איזה יון עבר חיזור ומהו המחזר בתגובה זו?

כתבה ופתרה – ד"ר אבלינה ברט ©

13) נתונות שתי מחציות התגובה ופוטנציאלי החיזור התקניים שלהן:

חצי תגובה	$E^0(V)$
$Fe^{3+}_{(aq)} + e \rightarrow Fe^{2+}_{(aq)}$	0.77
$MnO_4^-{}_{(aq)} + 8H^+_{(aq)} + 5e \rightarrow Mn^{2+}_{(aq)} + 4H_2O_{(l)}$	1.49

א. כתבו את התגובה המאוזנת שמתרחשת.

ב. מהו מספר מולי האלקטרונים העוברים בתגובה, כאשר 2.5 מול של $MnO_4^-{}_{(aq)}$ מגיב?

ג. כתבו תיאור סכמתי של התא האלקטרוכימי, שניתן לבנות על פי התגובה הזאת.

ד. חשבו את מתח התא בתנאים תקניים.

ה. חשבו את K_c.

ו. מה יהיה מתח התא כאשר הריכוזים של מרכיבי התא הם:

$$\left[Fe^{2+}_{(aq)}\right] = \left[Fe^{3+}_{(aq)}\right] = 0.6\ M,\ \left[Mn^{2+}_{(aq)}\right] = 0.2\,M,$$
$$\left[MnO_4^-{}_{(aq)}\right] = 0.1M,\ \left[H^+_{(aq)}\right] = 1M$$

14) נתונים שני חצאי תאים $Co^{2+}_{(aq)} + 2e \rightarrow Co_{(s)}\ \ E^0 = 0.28\,V$,

$Hg_2^{2+}{}_{(aq)} + 2e \rightarrow 2Hg_{(s)},\ E^0 = 0.78\,V$.

כאשר יוצרים מהם תא אלקטרוכימי:

א. כיוון זרימת האלקטרונים הוא מחצי התא של הקובלט לחצי התא של הכספית.

ב. כיוון זרימת האלקטרונים הוא מחצי התא של הכספית לחצי התא של הקובלט.

ג. כספית היא אנודה.

ד. כיוון זרימת האניונים בגשר המלח הוא לכיוון חצי התא של הכספית.

15) נתונות משוואות מחציות התא הבאות:

$$Pb^{2+}_{(aq)} + 2e \rightarrow Pb_{(s)} \rightarrow E^0 = 0.126\,V$$
$$Zn^{2+}_{(aq)} + 2e \rightarrow Zn_{(s)} \rightarrow E^0 = 0.763\,V$$
$$Cr^{3+}_{(aq)} + 3e \rightarrow Cr^{2+}_{(s)} \rightarrow E^0 = 0.408\,V$$

החומר המחזר הטוב ביותר הוא:

א. Zn

ב. Pb

ג. Cr^{2+}

ד. Cr^{3+}

כתבה ופתרה – ד"ר אבלינה ברט ©

16) כתבו את מחציות התגובה ואת המשוואה המאוזנת לתגובת התא הבא:

$Hg_{(l)} / Hg_2Cl_{2(s)} / Cl^-_{(aq)} // Cl^-_{(aq)} / AgCl_{(s)} / Ag_{(s)}$

17) סטודנטית קיבלה מחצית-תא תקני Fe^{2+}/Fe ומחצית-תא נוספת המכילה מתכת לא ידועה M טבולה בתמיסת MNO_3 בריכוז $1M$. כאשר חיברו את שתי מחציות התא בטמפ' החדר, התא השלם פעל כתא גלווני בעל מתח תא של $1.24V$. הניחו לתגובה להימשך כל הלילה ואז שקלו את האלקטרודות. נמצא שאלקטרודת הברזל קלה יותר ואלקטרודת המתכת הלא ידועה כבדה יותר.
מהו הפוטנציאל התקני של הצמד הלא ידוע M^+/M, אם נתון כי $E^0\left(Fe^{2+}/Fe\right) = -0.44V$.

18) זרם של $350mA$, שהועבר בתמיסה מימית של מנגן חנקתי במשך 13.7 שעות, גרם לשיקוע של 4.9 גרם של מנגן.
מהו מספר החמצון של מנגן במנגן חנקתי?

19) לתא הבא פוטנציאל של $1.45V$:

$Pt_{(s)}/Mn^{2+}_{(aq)}\left(1.4\cdot10^{-3}M\right)/MnO_4^-{}_{(aq)}\left(0.58M\right),\ H_3O^+_{(aq)}\left(pH=0\right)//$
$Sn^{4+}_{(aq)}\left(0.46M\right),\ Sn^{2+}_{(aq)}\left(1.2\cdot10^{-3}M\right)/Pt_{(s)}$

חשבו את קבוע שיווי המשקל עבור התגובה שמתרחשת בתא.

20) נתונה התגובה $Cu_{(s)} + NO_3^-{}_{(aq)} + H^+_{(aq)} \rightarrow Cu^{2+}_{(aq)} + NO_{(g)} + H_2O_{(l)}$.

א. אזנו את המשוואה בעזרת חצאי התגובות.

התגובה הנ"ל מתרחשת בתא. המתח שנמדד הוא: $E^0 = 0.62V$.

ב. היעזרו בנתוני הטבלה הבאה וחשבו את פוטנציאל החיזור התקני עבור מחצית התגובה של NO_3^-.

חצי תגובה	$E^0(V)$
$Cu^{2+}_{(aq)} + 2e \leftrightarrow Cu_{(s)}$	0.34
$NO_3^-{}_{(aq)} + 4H^+_{(aq)} + 3e \leftrightarrow NO_{(g)} + 2H_2O_{(l)}$	?

כתבה ופתרה – ד"ר אבלינה ברט ©

21) קבוע שיווי משקל לתגובה $Sn_{(s)} + Ni^{2+}_{(aq)} \leftrightarrow Sn^{2+}_{(aq)} + Ni_{(s)}$,
הוא $2\cdot10^{-4}$ (ב- $298\,K$).

א. האם פוטנציאל החיזור התקני של $Ni^{2+}_{(aq)}$ גבוה או נמוך מזה של יוני $Sn^{2+}_{(aq)}$? נמקו ללא חישובים.

ב. בָּנוּ את התא מהחומרים המופיעים בניסוח התגובה, והתא סיפק אנרגיה. רשמו בצורה סכמתית את המבנה של תא זה.

ג. כאשר התא הגיע לשיווי משקל נלקח מדגם מתמיסת $Sn^{2+}_{(aq)}$, והוכנסה לתוכה אלקטרודת בדיל. פוטנציאל האלקטרודה נמדד לעומת אלקטרודה תקנית של מימן, ונמצא שהוא $-0.26\,V$.
מהו ריכוז יוני הבדיל בתום פעולת התא? נתון: $E^0\left(Sn^{2+}/Sn\right) = -0.14\,V$.

כתבה ופתרה – ד"ר אבלינה ברט ©

תשובות סופיות

1) ג
2) ג
3) ג
4) א
5) ד
6) ג
7) א
8) ג
9) ד
10) ד
11) ג
12) א. $-0.249\,V$ ב. $0.167\,V$ ג.1. $0.249\,V$ 2. עלה.
3. $2H^+_{(aq)} + Ni_{(s)} \rightarrow H_{2(g)} + Ni^{2+}_{(aq)}$ 4. Ni מחזר, H^+ עובר חיזור.
13) א. $5Fe^{2+}_{(aq)} + MnO_4^-{}_{(aq)} + 8H^+_{(aq)} \rightarrow Mn^{2+}_{(aq)} + 4H_2O_{(l)} + 5Fe^{3+}_{(aq)}$
ב. 12.5 מול. ג. $Pt_{(s)} / Fe^{2+}_{(aq)},\ Fe^{3+}_{(aq)} // MnO_4^-{}_{(aq)},\ Mn^{2+}_{(aq)},\ H^+_{(aq)}$
ד. $0.72\,V$ ה. $1.04\cdot10^{61}$ ו. $0.71\,V$
14) א
15) ב
16) $2Hg_{(l)} + 2AgCl_{(s)} \rightarrow 2Ag_{(s)} + Hg_2Cl_{2(s)}$
17) $0.8\,V$
18) $+2$
19) $1.97\cdot10^{34}$
20) א. $NO_3^-{}_{(aq)} + 1.5Cu_{(s)} + 4H^+_{(aq)} \rightarrow NO_{(aq)} + 1.5Cu^{2+}_{(aq)} + 2H_2O_{(l)}$ ב. $0.96\,V$
21) א. נמוך. ב. $8.55\cdot10^{-5}\,M$

כתבה ופתרה – ד"ר אבלינה ברט ©

כימיה פיזיקלית

פרק 3 - שיווי משקל כימי

תוכן העניינים

1. שיווי משקל כימי 21

שיווי משקל כימי

שאלות

1) תערובת המכילה $HCl_{(g)}$, בריכוז $0.075M$ ו-$O_{2(g)}$ בריכוז $0.033M$, חוממה לטמפרטורה של $480°C$ והגיעה לשיווי-משקל לפי המשוואה $4HCl_{(g)} + O_{2(g)} \leftrightarrow 2Cl_{2(g)} + 2H_2O_{(g)}$.

בשיווי משקל, ריכוז הגז כלור (Cl_2) הוא $0.03M$.

מהו ערכו של קבוע שיווי המשקל K_c?

א. $1.1\cdot10^{-3}$

ב. 889

ג. 0.13

ד. 480

2) נתונה ריאקציה בשיווי משקל: $CO_{2(g)} + C_{(s)} \leftrightarrow 2CO_{(g)} \quad \Delta H^0 = 173\frac{kJ}{mol}$.

בחרו את הפעולה שתביא לעלייה בכמות הגז CO_2 בשיווי משקל:

א. דחיסת המערכת והורדת הטמפרטורה.

ב. הוספת פחמן מוצק תוך כדי חימום.

ג. הורדת הלחץ תוך כדי הגדלת הנפח.

ד. הוספה של $Ne_{(g)}$ והעלאת הלחץ הכללי.

3) באיזו תגובה הגדלת נפח הכלי מסיטה את התגובה לכיוון התוצרים?

א. $2CO + O_{2(g)} \rightleftarrows 2CO_{2(g)}$

ב. $N_2O_{4(g)} \rightleftarrows 2NO_{2(g)}$

ג. $CO_{2(g)} + H_{2(g)} \rightleftarrows CO_{(g)} + H_2O_{(g)}$

ד. $CO_{(g)} + 2H_{2(g)} \rightleftarrows CH_3OH_{(g)}$

לפתרון מלא בסרטוני וידאו היכנסו לאתר www.GooL.co.il
כתבה ופתרה – ד"ר אבלינה ברט ©

4) נתונה תגובת שיווי משקל: $N_{2(g)} + O_{2(g)} \rightleftarrows 2NO_{(g)} \quad \Delta H^0 = 180.8\,kJ$.
בטמפרטורה של $298\,K$ ערכו של קבוע שיווי המשקל הוא 0.01, וזמן השגת שיווי משקל בטמפרטורה זו הוא 452 שניות. נבצע את התגובה בכלי שנפחו 5.0 ליטר ובטמפרטורה של $250\,K$.
מהו המשפט **הנכון**:

א. K עשוי לגדול וזמן השגת שיווי המשקל עשוי להתארך.
ב. ΔH^0 עשוי לגדול וזמן השגת שיווי המשקל עשוי להתקצר.
ג. K עשוי לקטון וזמן השגת שיווי המשקל עשוי להתארך.
ד. K ו-ΔH^0 עשויים לגדול וזמן השגת שיווי המשקל עשוי להתקצר.

5) נתונה תגובת שיווי משקל $2SO_{3(g)} \rightleftarrows 2SO_{2(g)} + O_{2(g)}$, עבורה ב-$T_1$, $K_p = 0.15$.
לכלי התגובה, שנפחו 12.5 ליטר ושנמצא ב-T_1, הוזרמו שלושת הגזים.
בתחילת התגובה הלחץ החלקי של $SO_{3(g)}$ שווה ל-1.2 בר, הלחץ החלקי של $O_{2(g)}$ שווה ל-0.6 בר והלחץ החלקי של $SO_{2(g)}$ שווה ל-1.2 בר.
מהו המשפט **הנכון** לגבי המערכת במצב של שיווי משקל:

א. הלחץ החלקי של $SO_{3(g)}$ קטן מ-1.2 בר.
ב. הלחץ החלקי של $SO_{2(g)}$ גדול מ-1.2 בר.
ג. הלחץ החלקי של $O_{2(g)}$ גדול מ-0.6 בר.
ד. הלחץ הכללי בכלי התגובה קטן מ-3.0 בר.

6) לכלי התגובה, שנפחו 3.00 ליטר ומוחזק בטמפרטורה של $550\,K$, הוכנסו 20.0 גרם של PCl_5 גזי. תוך מספר דקות המערכת הגיעה למצב של שיווי משקל.
בתנאים אלה הלחץ שווה ל-$2.77\,bar$. כמו כן, $PCl_{5(g)} \rightleftarrows PCl_{3(g)} + Cl_{2(g)}$.

א. 1. חשבו את הלחץ החלקי (ביחידות bar) של כל מרכיבי המערכת במצב של שיווי המשקל.
2. חשבו את אחוז הפירוק של PCl_5 בתנאים אלה.
3. חשבו את ה-Kp בטמפרטורה של $550\,K$.

ב. אם נבצע את התגובה בטמפרטורה של $400\,K$ (כאשר כל מרכיבי המערכת במצב גזי), האם אחוז הפירוק של PCl_5 יהיה קטן, גדול יותר או שווה לזה שחושב בסעיף א.2? נתון גם שבעת התהליך הישיר הכלי מתחמם. נמקו **ללא** חישובים.

כתבה ופתרה – ד"ר אבלינה ברט ©

7) לתגובה $2A_{(g)} \rightleftarrows B_{(g)} + 3C_{(g)}$ בטמפרטורת החדר $Kc = 2.5$. לכלי התגובה בטמפרטורת החדר הוכנסו שלושת הגזים בריכוז $2.5M$ כל אחד.
מהו המשפט **הנכון**:

א. עד השגת שיווי המשקל ריכוזו של C ירד.
ב. עד השגת שיווי המשקל ריכוזו של A ירד.
ג. ריכוז כל מרכיבי התגובה לא ישתנה, כי המערכת נמצאת בשיווי משקל.
ד. אי אפשר לדעת כי לא נתון נפח הכלי.

8) שתי העקומות להלן מתארות את lnK כפונקציה של $\frac{1}{T}$:

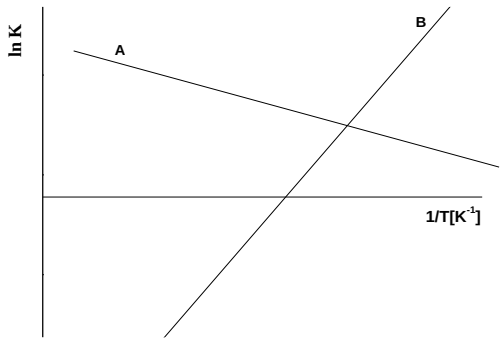

נתונות שלוש תגובות:

1) $N_{2(g)} + 3H_{2(g)} \rightleftarrows 2NH_{3(g)} \quad \Delta H^0 < 0$
2) $N_2O_{4(g)} \rightleftarrows 2NO_{2(g)} \quad \Delta H^0 < 0$
3) $2SO_{3(g)} \rightleftarrows 2SO_{2(g)} + O_{2(g)} \quad \Delta H^0 > 0$

איזו תגובה מתאימה לאיזה עקום, אם נתון שבתגובות שמתאימות לעקומות הגדלת הנפח גורמת להגדלת כמות התוצרים:

א. $A = 3,\ B = 1$
ב. $A = 3,\ B = 2$
ג. $A = 1,\ B = 2$
ד. $A = 2,\ B = 1$

כתבה ופתרה – ד"ר אבלינה ברט ©

9) לכלי **סגור**, בנפח 6.0 ליטר ובטמפרטורה של 380 K, הוכנסו גז N_2O_4 ו- NO_2 גזי. הלחץ ההתחלתי של N_2O_4 שווה ל- 1.30 bar ושל NO_2, 0.08 bar.
בין הגזים מתקיימת תגובת שיווי המשקל $2NO_{2(g)} \rightleftarrows N_2O_{4(g)}$.
במהלך התגובה בוצע מעקב אחר הלחץ הכללי ששרר במיכל:

זמן (דקות)	12	6	3.5	2.0	1.0	0
לחץ (bar)	2.14	2.14	2.04	1.88	1.68	1.38

א. 1. האם מסה של N_2O_4 עלתה או ירדה במהלך התגובה. נמקו.
2. חשבו את הלחצים החלקיים של N_2O_4 ושל NO_2 בזמן $t = 2\,\text{min}$.

ב. 1. חשבו את הלחצים החלקיים של הגזים **במצב שיווי משקל**.
2. רשמו ביטוי לקבוע שיווי המשקל לפי הלחצים, וחשבו את ערכו של קבוע שיווי המשקל לפי הלחצים בתנאים אלה.

ג. בדקה ה-14 הכלי חומם, וכתוצאה מכך, ריכוז ה- NO_2 עלה.
1. האם התהליך הישיר הוא אקסותרמי או אנדותרמי? נמקו.
2. האם זמן השגת שיווי המשקל החדש קצר, ארוך יותר, או שווה לזה שהיה? נמקו.

10) בתגובת שיווי המשקל $2A_{(g)} \rightleftarrows 2B_{(g)} + C_{(g)}$, הוכנסו לכלי התגובה, שנפחו 4.0 ליטר, 0.2 מול של A. במהלך התגובה עקבו אחרי ריכוזו של A וחושב ה- Q.
תוצאות הניסוי מובאות בטבלה הבאה:

זמן (דקות)	25	20	15	10	5
Q	1.28	1.28	$1.35\cdot10^{-1}$	$1.77\cdot10^{-2}$	$1.25\cdot10^{-3}$

נתונות מספר קביעות:
1. בין הדקות 15-20 הלחץ בכלי התגובה עלה.
2. בין הדקות 20-25 הלחץ בכלי נשאר קבוע.
3. המערכת הגיע לשיווי משקל בין הדקות 20-25.

מהי הקביעה **הלא** נכונה:
א. 1 בלבד.
ב. 3 בלבד.
ג. 2 ו-3.
ד. 1 ו-3.

כתבה ופתרה – ד"ר אבלינה ברט ©

11) נתונה תגובת שיווי המשקל $SbCl_{5(g)} \rightleftarrows SbCl_{3(g)} + Cl_{2(g)}$, כאשר $K_c(T = 520K) = 0.025$.

לתוך כלי ריק, בנפח 100 ליטר ושמוחזק בטמפרטורה של $520\,K$, הכניסו 2.0 מול של $SbCl_{3(g)}$, 3.0 מול של $SbCl_{5(g)}$ ו-5.0 מול של $Cl_{2(g)}$.

א. האם מרגע הכנסת החומרים ועד השגת שיווי המשקל הריכוז של $SbCl_{5(g)}$ גדל, קטן או נשאר ללא שינוי? נמקו.

ב. מהם הריכוזים של כל מרכיבי המערכת במצב שיווי משקל?

ג. תגובת שיווי המשקל $SbCl_{5(g)} \rightleftarrows SbCl_{3(g)} + Cl_{2(g)}$ נחקרה בטמפרטורה של $500\,K$. לתוך כלי ריק, בנפח 100 ליטר ושמוחזק בטמפרטורה של $500\,K$ הוכנסו 2.0 מול של $SbCl_{3(g)}$, 3.0 מול של $SbCl_{5(g)}$ ו-5.0 מול של $Cl_{2(g)}$. אחרי זמן מסוים המערכת הגיעה למצב של שיווי משקל.

במצב זה, הריכוז של $SbCl_{5(g)}$ היה $0.028\,M$.

האם תגובת פירוק של $SbCl_{5(g)}$ ל-$SbCl_{3(g)}$ ול-$Cl_{2(g)}$ היא אנדותרמית או אקסותרמית? נמקו.

12) שני מכלים נמצאים בטמפרטורה של 450^0C. בראשון, שנפחו 5 ליטר, קיים שיווי המשקל $N_{2(g)} + 3H_{2(g)} \rightleftarrows 2NH_{3(g)}$. הלחצים החלקיים שנמדדו בו הם:

$P_{N2} = 11.85\,bar,\ P_{H2} = 23.70\,bar,\ P_{NH3} = 35.55\,bar$.

המיכל השני, שנפחו 1 ליטר, מכיל רק 1 מול מימן.

כמה גרם חנקן צריך להוסיף למיכל זה, כדי שבשיווי המשקל 60% מהמימן יהפכו לאמוניה (NH_3) כשהטמפרטורה נשארת קבועה וזהה בשני המכלים?

13) לכלי התגובה הוכנסו 0.16 מולים של A ו-0.16 מולים של B, ואחרי 18.5 דקות המערכת הגיעה למצב של שיווי המשקל. במצב זה נמצאים בכלי 0.12 מולים של A, 0.08 מולים של B ו-0.12 מולים של C.

מהו הביטוי **המתאים** ביותר שמבטא את קבוע שיווי המשקל:

א. $K = \dfrac{P_C}{P_A \cdot (P_B)^2}$

ב. $K = \dfrac{(P_C)^2}{P_A \cdot P_B}$

ג. $K = \dfrac{(P_C)^3}{P_A \cdot (P_B)^2}$

ד. $K = \dfrac{(P_C)^3}{(P_A)^2 \cdot P_B}$

כתבה ופתרה – ד"ר אבלינה ברט ©

14) נתונה תגובה שהסתיימה בשיווי המשקל $A_{(g)} + 2B_{(g)} \rightleftarrows 3C_{(g)},\ \Delta H^0 < 0$.

לכלי שנפחו 15 ליטר הוכנסו A ו- B בלבד. נתון שבזמן אפס הריכוז של B היה $0.20M$, והריכוז של A היה $0.10M$.

נתונות חמש קביעות עבור תגובה זו:

1. במצב של שיווי משקל הריכוז של C שווה ל- 0.3 M.
2. בתגובה זו, המעקב אחר השתנות הלחץ הכללי מאפשר לקבוע האם התגובה הגיעה למצב של שיווי משקל.
3. אם במצב של שיווי משקל מגדילים את נפח הכלי ל-30 ליטר, הריכוז של C בזמן השינוי יקטן פי 2, ואחר כך יגדל עד השגת שיווי המשקל החדש.
4. אם במצב של שיווי משקל מגדילים את נפח הכלי ל-30 ליטר, מספר המולים של C במצב שיווי המשקל החדש יהיה גדול מזה שבמצב שיווי המשקל לפני הגדלת הנפח.
5. חימום יגרום להגדלת קבוע שיווי המשקל.

מהן הקביעות ה**לא נכונות**:

א. 1, 2 ו-3.

ב. 1, 3 ו-4.

ג. 2, 3 ו-4.

ד. אף קביעה אינה נכונה.

15) הבשלושת הניסויים הבאים התרחשה התגובה $2SO_{2(g)} + O_{2(g)} \rightleftarrows 2SO_{3(g)}$.

בניסוי 1: לכלי שנפחו 1 ליטר, המוחזק בטמפרטורה של $300K$, הכניסו תערובת של הגזים SO_2 ו- O_2 בלבד. לאחר 10 דקות נמצא שריכוזי החומרים בכלי אינם משתנים עוד והם: $SO_{3(g)}: 0.6M,\ \ O_{2(g)}: 0.2M,\ \ SO_{2(g)}: 0.4M$.

א. מהם הריכוזים ההתחלתיים של הגזים שהוכנסו לכלי?

ב. חשבו את ה- K_c בטמפ' 300 K.

ג. האם הלחץ בכלי עלה, ירד או נשאר ללא שינוי מתחילת התגובה ועד השגת מצב שיווי משקל?

בניסוי 2: לכלי התגובה שנפחו 1 ליטר, המוחזק גם הוא בטמפרטורה של $300K$, הכניסו תערובת של אותם גזים כמו בניסוי הראשון. כעבור זמן מה בדקו את הרכב הגזים ונמצאו בכלי $SO_{3(g)}: 0.3M,\ \ O_{2(g)}: 0.1M,\ \ SO_{2(g)}: 0.4M$.

ד. האם ברגע הבדיקה המערכת נוטה ליצור תוצרים, מגיבים, או נמצאת בשיווי משקל?

בניסוי 3: לכלי שנפחו 1 ליטר הוכנסו אותם מספרי מולים של הגזים $SO_{2(g)}$ ו- $O_{2(g)}$ כמו בניסוי 1, אולם הושג שיווי משקל בזמן קצר יותר, ונמצא שריכוז $SO_{2(g)}$ במצב שיווי המשקל היה גבוה מזה שבניסוי מספר 1.

ה. האם התגובה הישירה היא אקסותרמית או אנדותרמית?

כתבה ופתרה – ד"ר אבלינה ברט ©

16) סטודנטית מכניסה לגליל גז A ב-10 אטמוספירות וב-$25°C$. כתוצאה מכך, בגליל מתרחשת התגובה הבאה, שמסתיימת בהיווצרות מצב של שיווי משקל:
$A_{(g)} \rightleftarrows 2B_{(g)} + 3C_{(g)}$. במצב זה הלחץ הכללי במערכת שווה ל-15.76 אטמ'.

א. חשבו את ה-K_p עבור תגובה זו בטמפרטורה הנתונה.

ב. חשבו את ה-K_c עבור תגובה זו בטמפרטורה הנתונה.

17) ציקלוהקסאן (C) ומתיל ציקלופנטאן (M) הם איזומרים. קבוע שיווי המשקל של התגובה $C_{(aq)} \rightleftarrows M_{(aq)}$, הוא 0.14 ב-$25°C$.

א. חוקרת מכינה תמיסה של $0.02M$ $C_{(aq)}$ ו-$0.1M$ $M_{(aq)}$. האם המערכת נמצאת בשיווי משקל? אם לא, האם ייווצרו עוד מגיבים או תוצרים?

ב. מהם ריכוזי ה-C וה-M בשיווי המשקל?

ג. המערכת חוממה במצב שיווי משקל ל-$50°C$. כעבור זמן-מה המערכת חזרה לשיווי המשקל שבו הריכוז של C שווה ל-$0.1M$.
חשבו את קבוע שיווי המשקל החדש.

ד. האם התגובה הישירה היא אקסותרמית או אנדותרמית?

18) נתונה מערכת שנמצאת בשיווי משקל $CO_{(g)} + Cl_{2(g)} \rightleftarrows COCl_{2(g)}$.
בזמן t מעלים את הריכוז של $COCl_{2(g)}$ ללא שינוי ביתר הפרמטרים.
איזה מהגרפים הבאים מתאר נכון את התנהגות המערכת בעקבות ההפרעה:

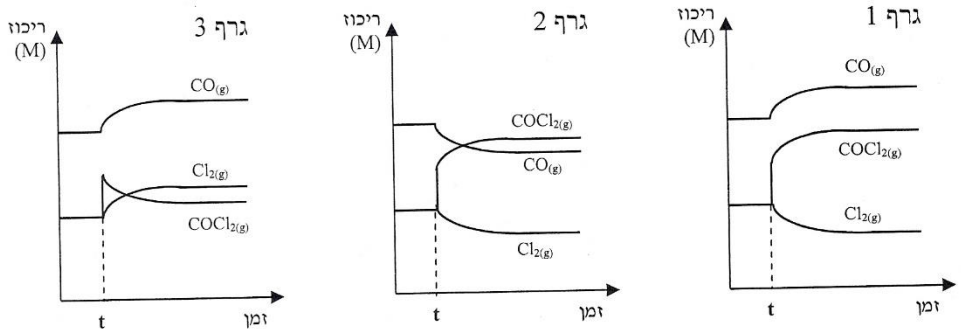

א. גרף 1.

ב. גרף 2.

ג. גרף 3.

ד. גרפים 1 ו-3.

כתבה ופתרה – ד"ר אבלינה ברט ©

19) לכלי שנפחו 5.0 ליטר, המוחזק בטמפרטורה $380\,K$, הוכנסו $N_2O_{(g)}$ ו-$O_{2(g)}$.
הגרף שלהלן מתאר את השינויים בריכוזי החומרים (ביחידות מול לליטר) ביחס לזמן (בדקות):

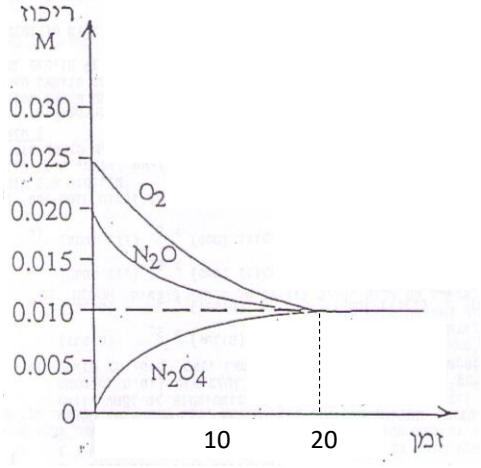

א. רשמו את התגובה המתרחשת בכלי התגובה.

ב. חשבו את ערכו של קבוע שיווי המשקל לפי הריכוזים.

ג. האם הלחץ הכללי במערכת מרגע הכנסת החומרים ועד השגת שיווי המשקל יגדל, יקטן או לא ישתנה? נמקו.

ד. ברגע מסוים חיברו למערכת זו כלי נוסף, שנפחו 5 ליטר והוא נשמר בטמפרטורה של $380\,K$, ובו נמצא חמצן בריכוז של $0.01M$.
תארו באופן גרפי את השתנות הלחץ החלקי של החמצן ושל $N_2O_{4(g)}$ במשך 30 דקות מרגע החיבור של הכלי הנוסף. נמקו.

כתבה ופתרה – ד"ר אבלינה ברט ©

20) נתונה תגובה הפיכה $H_{2(g)} + CO_{2(g)} \Leftrightarrow H_2O_{(g)} + CO_{(g)}$,
ונתונים שלושה כלים a, b ו- c. נפחו של כל כלי 1 ליטר, ולכל כלי הכניסו 0.2 מול $H_{2(g)}$ ו- 0.2 מול $CO_{2(g)}$. להלן תיאור גרפי של השתנות הריכוז של $CO_{(g)}$ עם הזמן, המתאים לכל אחת מהמערכות a, b ו- c.

ריכוז CO (M)

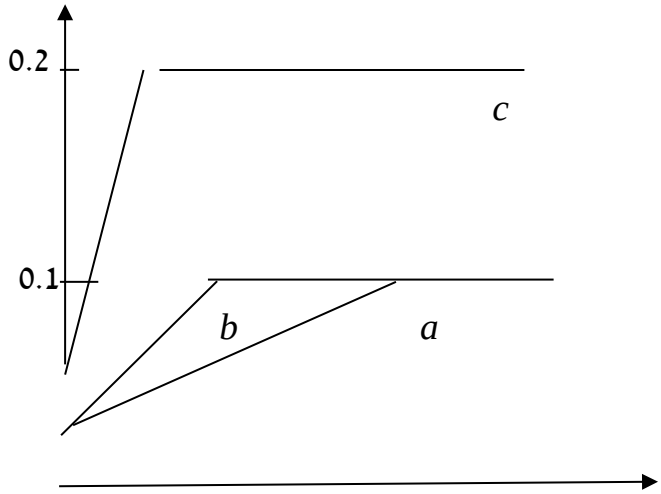

זמן (דקות)

א. חשבו את ערכו של K עבור המערכת a.

ב. במה שונה מערכת a

1. ממערכת b? הסבירו מהו הגורם להבדל.
2. ממערכת c? הסבירו מהו הגורם להבדל.

ג. האם התגובה משמאל לימין היא אקסותרמית או אנדותרמית? נמקו.

כתבה ופתרה – ד"ר אבלינה ברט ©

תשובות סופיות

1) ב
2) א
3) ב
4) ג
5) ד
6) א.1. $P(PCl_5)=0.15\,bar;\ P(PCl_3)=P(Cl_2)=1.31\,bar$
2. 89.73% 3. 11.44 ב. יגדל.
7) א
8) ב
9) א.1. ירדה. 2. $P(N_2O_4)=0.8\,bar;\ P(NO_2)=1.08\,bar$
ב.1. $P(N_2O_4)=0.54\,bar;\ P(NO_2)=1.6\,bar$ 2. 0.21
ג.1. אקסותרמי. 2. קצר.
10) ב
11) א. תגדל.
ב. $C(SbCl_5)=0.033\,M;\ C(Cl_2)=0.047\,M;\ C(SbCl_3)=0.017\,M$
ג. אקסותרמי.
12) 8.03 גרם.
13) ג
14) ד
15) א. $C(SO_2)=1M;\ C(O_2)=0.5\,M$ ב. 11.25 ג. ירד
ד. נוטה ליצור תוצרים ה. אנדותרמי.
16) א. 78.12 ב. $2.198\cdot10^{-4}$
17) א. מגיבים. ב. $[C]=0.105\,M;\ [M]=0.015\,M$
ג. 0.2 ד. אנדותרמי.
18) ג
19) א. $3O_{2(g)}+2N_2O_{(g)} \Leftrightarrow 2N_2O_{4(g)}$ ב. 10^6 ג. הלחץ יקטן.
ד. הלחץ של N_2O_4 ירד ונשאר קבוע; הלחץ של החמצן לא השתנה.
20) א. 1 ב.1. בכלי b היה זרז. 2. בכלי c הטמפרטורה גבוהה יותר.
ג. אנדותרמי.

לפתרון מלא בסרטוני וידאו היכנסו לאתר www.GooL.co.il
כתבה ופתרה – ד"ר אבלינה ברט ©

כימיה פיזיקלית

פרק 4 - תרמודינמיקה

תוכן העניינים

1. תרמודינמיקה 31

תרמודינמיקה

שאלות

1) 2.5 מול של מים מתאדים בנקודת הרתיחה שלהם בלחץ של 1.000 atm. המים נמצאים בגליל עם בוכנה, והאידוי מתרחש עקב חימום המערכת. הבוכנה נעה ללא חיכוך, כך שהלחץ הפנימי נשאר קבוע.
מהי העבודה שנעשתה?

2) גז אידיאלי, בלחץ 1atm וטמפרטורה של 30°C, מתפשט נגד לחץ חיצוני של 0.3atm לתוך כלי שנפחו 2.5 ליטר.
כמה עבודה מבצע הגז?

3) גז חומם בכלי עם בוכנה על ידי קבלת חום של 7000 J. הגז התפשט כנגד לחץ חיצוני של 750 torr, ונפח הכלי גדל מ- 700 ml ל- 1450 ml.
מהו השינוי באנרגיה הפנימית של הגז?

4) 1.00 mol של גז אידיאלי נמצא בכלי שנפחו 8 ליטר. הלחץ בכלי הוא 3atm והטמפרטורה היא 298 K. הגז מתפשט לנפח של 20.00 ליטר ולחץ 1.20 atm, בשני מסלולים שונים:
מסלול 1 – התפשטות איזותרמית הפיכה.
מסלול 2 – בשני שלבים:
שלב א – הגז מקורר בנפח קבוע עד שהלחץ יורד ל- 1.20 atm.
שלב ב – הגז מחומם ומושאר להתפשט כנגד לחץ קבוע של 1.20 atm, עד שנפחו מגיע ל 20.00 ליטר.
חשבו את w, q, Δ, U בכל אחד מהמסלולים.

5) מול אחד של גז אידיאלי מתפשט, תוך שמירה על טמפרטורת החדר, מנפח התחלתי של 1 ליטר לנפח סופי של 4 ליטר.
מצאו את העבודה שנעשתה
א. כנגד ואקום.
ב. כנגד לחץ חיצוני של 0.5 atm.

לפתרון מלא בסרטוני וידאו היכנסו לאתר www.GooL.co.il
כתבה ופתרה – ד"ר אבלינה ברט ©

6) ביחס לתגובות הבאות, קבעו האם האנטרופיה גדלה, קטנה או לא השתנתה:

א. $O_{2(g)} \rightarrow 2O_{(g)}$

ב. $N_{2(g)} + 3H_{2(g)} \rightarrow 2NH_{3(g)}$

ג. $C_{(s)} + H_2O_{(g)} \rightarrow CO_{(g)} + H_{2(g)}$

ד. $Br_{2(g)} \rightarrow Br_{2(l)}$

ה. $H_{2(g)}[p = 5\text{atm}] \rightarrow H_{2(g)}[p = 2\text{atm}]$

7) חשבו את שינוי האנטרופיה במערכת, בסביבה וביקום, כאשר 14 גרם של חנקן מכפילים את הנפח בתהליך:

א. התפשטות איזותרמית הפיכה.

ב. התפשטות איזותרמית לא-הפיכה (הלחץ החיצוני הוא 0).

8) חשבו את כמות החום ואת שינוי האנטרופיה במעבר של 2 מול אמוניה נוזלית (NH_3) בטמפרטורה של $-40°C$ עד לאמוניה גזית ב-$200°C$, כאשר התהליך נעשה בלחץ קבוע.

נתונים:

$$\Delta H_v^0(NH_3) = 5.56\frac{\text{kcal}}{\text{mol}},\ c_p(NH_{3(l)}) = 17.9\frac{\text{cal}}{\text{mol}},$$
$$c_p(NH_{3(g)}) = 8.92\frac{\text{cal}}{\text{mol}},\ t_b(NH_{3(l)}) = -33.46°C$$

9) האנטרופיה של בדיל לבן ואפור בטמפרטורת החדר היא $S^0 = 6.3\frac{\text{cal}}{\text{mol}}\,{}^0\text{K}$, $S^0 = 6.16\frac{\text{cal}}{\text{mol}}\,{}^0\text{K}$. שינוי האנתלפיה במעבר מבדיל לבן לאפור הוא $0.53\frac{\text{kcal}}{\text{mol}}$.
איזו צורה של בדיל יציבה יותר?

10) נתונים:

	$\Delta H_f^0\left(\frac{\text{kJ}}{\text{mol}}\right)$	$\Delta G_f^0\left(\frac{\text{kJ}}{\text{mol}}\right)$
$SO_{2(g)}$	-289.41	-301.43
$SO_{3(g)}$	-396.9	-3171.74

א. נסחו תגובה בין SO_2 גזי לבין חמצן גזי, לקבלת SO_3 גזי.

ב. איזו תחמוצת יציבה יותר בנוכחות חמצן, בתנאים תקניים?

ג. חשבו את שינוי האנטרופיה עבור התגובה הנתונה.

ד. מהו תחום הטמפרטורות שבו התהליך הוא ספונטני?

כתבה ופתרה – ד"ר אבלינה ברט ©

11) נתונה תגובה $H_{2(g)}+CO_{2(g)} \rightarrow H_2O_{(g)}+CO_{(g)}$, ונתונים:
$\Delta G_f^0\left(CO_{2(g)}\right)=-397.4\,kJ, \Delta G_f^0\left(CO_{(g)}\right)=-137.15\,kJ, \Delta G_f^0\left(H_2O_{(g)}\right)=-228.58\,kJ$.

א. האם התגובה ספונטנית בטמפרטורת החדר?
ב. חשבו את קבוע שיווי המשקל של התגובה הנתונה.

12) כמות בלתי-ידועה של PCl_5 חוממה בכלי שנפחו 12 ליטר, ונתונה תגובה אפשרית, $PCl_{5(g)} \rightarrow PCl_{3(g)}+Cl_{2(g)}$. נמצא שבשיווי משקל הכלי מכיל 0.21 מול PCl_5, 0.32 מול PCl_3 ו- 0.32 מול של Cl_2.

א. חשבו את קבוע שיווי המשקל $\left(K_p,K_c\right)$ עבור המערכת הנתונה, בטמפרטורת החדר.
ב. חשבו את ΔG^0 עבור תגובה זו.

13) מול 1 של CO גזי ומול אחד של מים גזיים עורבבו במיכל בנפח 10 ליטר, שחומם עד 1000°C, והתרחשה התגובה $CO_{(g)}+H_2O_{(g)} \rightarrow CO_{2(g)}+H_{2(g)}$.
בשיווי משקל נמצאו 0.57 מול של CO.

א. חשבו את קבוע שיווי המשקל $\left(K_p,K_c\right)$ בטמפרטורה הנתונה.
ב. חשבו את ΔG^0 עבור תגובה זו בטמפרטורת החדר.
ג. חשבו את ΔG^0 עבור תגובה זו בטמפרטורת החדר, כאשר נתונים הלחצים החלקיים:
$P\left(H_2\right)=0.25\,atm,\ P\left(CO\right)=1.20\,atm,$
$P\left(H_2O\right)=0.66\,atm,\ P\left(CO_2\right)=0.78\,atm$.

14) נתונים שני גדלים
$\Delta G_f^0\left(CH_3OH_{(l)}\right)=-39.73\frac{kcal}{mol}$
$\Delta G_f^0\left(CH_3OH_{(g)}\right)=-38.69\frac{kcal}{mol}$
, ונתון שיווי המשקל הבא:
$CH_3OH_{(l)} \leftrightarrow CH_3OH_{(g)}$.

א. חשבו את ΔG^0 עבור תהליך זה בטמפרטורת החדר.
ב. מהו ΔG בשיווי משקל?
ג. האם הטמפרטורה שבה תהליך הרתיחה של CH_3OH ספונטני נמוכה, גבוהה או שווה לטמפרטורת החדר? נמקו.

15) נתונים:

$$\Delta H_f^0\left(CH_{4(g)}\right)=-74.8\frac{kJ}{mol},\ \Delta H_f^0\left(CO_{2(g)}\right)=-393.5\frac{kJ}{mol},\ \Delta H_f^0\left(H_2O_{(l)}\right)=-285.9\frac{kJ}{mol}$$

$$S^0\left(CH_{4(g)}\right)=186.2\,J/K\,mol,\ S^0\left(CO_{2(g)}\right)=213.6\,J/K\,mol$$

$$S^0\left(O_{2(g)}\right)=205\ J/K\,mol,\ S^0\left(H_2O_{(l)}\right)=70\ J/K\,mol$$

א. חשבו את ΔG^0 לתגובת השריפה של מתאן ב- $800°K$.

ב. האם התהליך ספונטני?

ג. איך תשפיע הקטנת הטמפרטורה על מידת הספונטניות של התהליך? נמקו.

16) 100 גרם של בנזן מתאדים בנקודת הרתיחה שלו, $80.2°C$, ב- $760\,mm\,Hg$, כאשר חום האידוי הוא $94.4\frac{cal}{g}$. נתון שמסה מולרית של בנזן היא $78\frac{g}{mol}$.

מה ערכם של הגדלים הבאים:

א. עבודה שמתבצעת בתהליך הפיך, W.

ב. כמות החום, Q.

ג. שינוי האנרגיה הפנימית, ΔU.

17) מול אחד של גז אידיאלי מונו-אטומי עובר תהליך הפיך, שבו מוכפל נפחו. שינוי האנתלפיה בתהליך הוא $\Delta H^0=500\,cal$, והחום שעובר בו הוא $Q=400\,cal$. נתון גם כי $c_p=5\frac{cal}{mol}deg$.

א. חשבו את הטמפרטורה והלחץ הסופיים, אם הטמפרטורה ההתחלתית היא $20°C$, והלחץ ההתחלתי הוא $1atm$.

ב. חשבו את העבודה שבוצעה, ואת השינוי באנרגיה הפנימית של הגז.

18) מול של גז אידיאלי מתפשט מנפח של 10 ליטר ומטמפרטורה של $25°C$, לנפח של 50 ליטר וטמפרטורה של $100°C$. נתון $c_p=6.5\frac{cal}{mol}\cdot deg$.

התהליך מתרחש בשני מסלולים:

מסלול א – הגז חומם בנפח קבוע ל- $100°C$ ואז התפשט באופן הפיך איזותרמי לנפח של 50 ליטר.

מסלול ב – הגז התפשט באופן הפיך איזותרמי לנפח של 50 ליטר ואז חומם בנפח קבוע ל- $100°C$.

חשבו עבור שני המסלולים את $\Delta U,\ W,\ q$.

כתבה ופתרה – ד"ר אבלינה ברט ©

תשובות סופיות

1) $W = -7747.31\,\text{j}$

2) $W = -53195.6\,\text{J}$

3) $\Delta U = 6925\,\text{J}$

4) מסלול ראשון: $W = -2224.47\,\text{j},\ q = 2224.47\,\text{J}, \Delta U = 0$,
מסלול שני: $W = -1459.08\,\text{j},\ q = 1459.08\,\text{J}, \Delta U = 0$.

5) א. $W = 0$ ב. $W = -151.987\,\text{J}$

6) א. גדלה. ב. קטנה. ג. גדלה. ד. קטנה. ה. גדלה.

7) א. $\Delta S_{\text{universe}} = 0,\ \Delta S_{\text{enviroment}} = -2.88\,\text{J/k},\ \Delta S_{\text{system}} = 2.88\,\text{J/k}$
ב. $\Delta S_{\text{universe}} = 2.88\,\text{J/k},\ \Delta S_{\text{enviroment}} = 0,\ \Delta S_{\text{system}} = 2.88\,\text{J/k}$

8) $Q = 15519.03\,\text{cal},\ \Delta S = 71.77\,\text{cal/K}$

9) בדיל לבן.

10) א. $SO_{2(g)} + 0.5O_{2(g)} \rightarrow SO_{3(g)}$ ב. SO_3
ג. $\Delta S^0 = -0.094\,\frac{\text{kJ}}{\text{mol}}$ ד. $T < 1047.76\,\text{K}$

11) א. לא. ב. $K = 2.8\cdot 10^{-5}$

12) א. $K_p = 0.98,\ K_c = 0.04$ ב. $\Delta G^0 = -50.03\,\text{J/mol}$

13) א. $K_p = K_c = 0.57$ ב. $\Delta G^0 = 1392\,\text{J/mol}$ ג. $\Delta G^0 = -2078.8\,\text{J/mol}$

14) א. $\Delta G^0 = 1.04\,\text{kJ/mol}$ ב. $\Delta G = 0$ ג. גבוהה.

15) א. $\Delta G^0_{800} = -696.4\,\text{kJ}$ ב. כן. ג. ראו בסרטון.

16) א. $W = -3756.12\,\text{j}$ ב. $Q = 9440\,\text{cal}$ ג. $\Delta U = 8541.7\,\text{cal}$

17) א. $T = 373\,\text{K},\ P_2 = 0.64\,\text{atm}$ ב. $W = -63.1\,\text{cal},\ \Delta U = 336.92\,\text{cal}$

18) מסלול ראשון: $W = -1193.4\,\text{cal},\ q = 1532.4\,\text{cal}, \Delta U = 339\,\text{cal}$,
מסלול שני: $W = -953.49\,\text{cal},\ q = 1292.5\,\text{cal}, \Delta U = 339\,\text{cal}$.

לפתרון מלא בסרטוני וידאו היכנסו לאתר www.GooL.co.il
כתבה ופתרה – ד"ר אבלינה ברט ©